Wie kannst du die Fläche eines Rechtecks berechnen?

Rechteckflächen durch eine Multiplikation berechnen

Du kannst die Fläche eines Rechtecks statt durch Zählen der Quadrate auch durch eine Rechnung bestimmen:

- Dieses Rechteck enthält 3 Reihen mit 5 cm^2.
- Insgesamt sind das $3 \cdot 5\ cm^2 = 15\ cm^2$.

  Fläche = $3 \cdot 5\ cm^2 = 15\ cm^2$

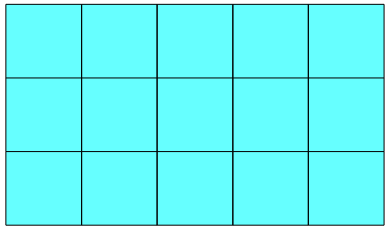

Notiere unter jedes Rechteck die Fläche mit der Rechnung:

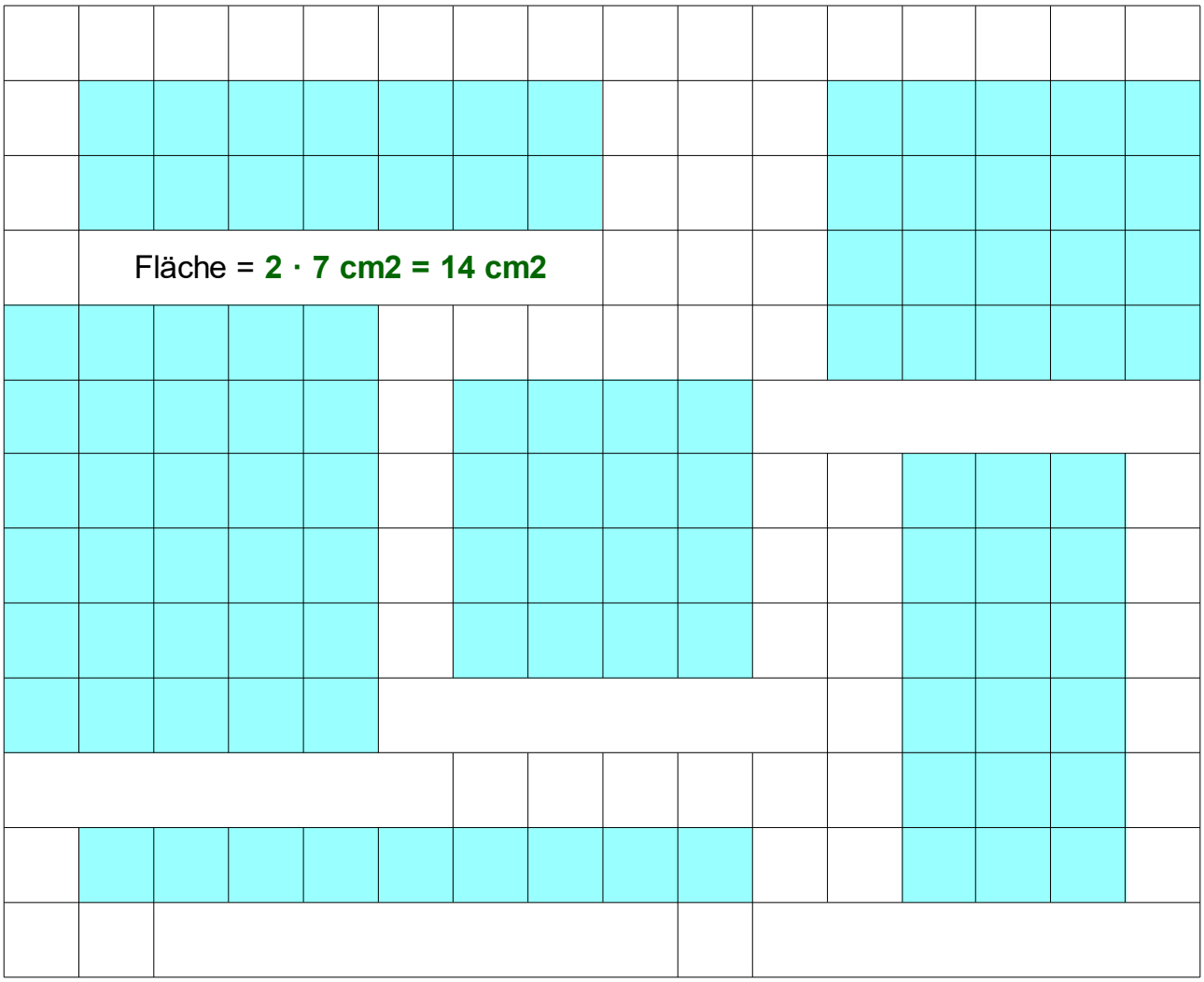

Wie kannst du die Fläche eines Rechtecks berechnen?

Lösungen

Rechteckflächen durch eine Multiplikation berechnen

Du kannst die Fläche eines Rechtecks statt durch Zählen der Quadrate auch durch eine Rechnung bestimmen:

- Dieses Rechteck enthält 3 Reihen mit 5 cm^2.
- Insgesamt sind das $3 \cdot 5\ cm^2 = 15\ cm^2$.

  Fläche = $3 \cdot 5\ cm^2 = 15\ cm^2$

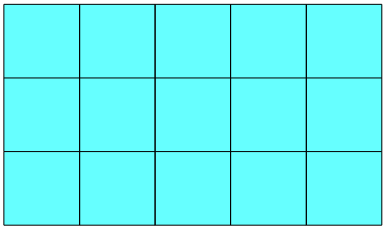
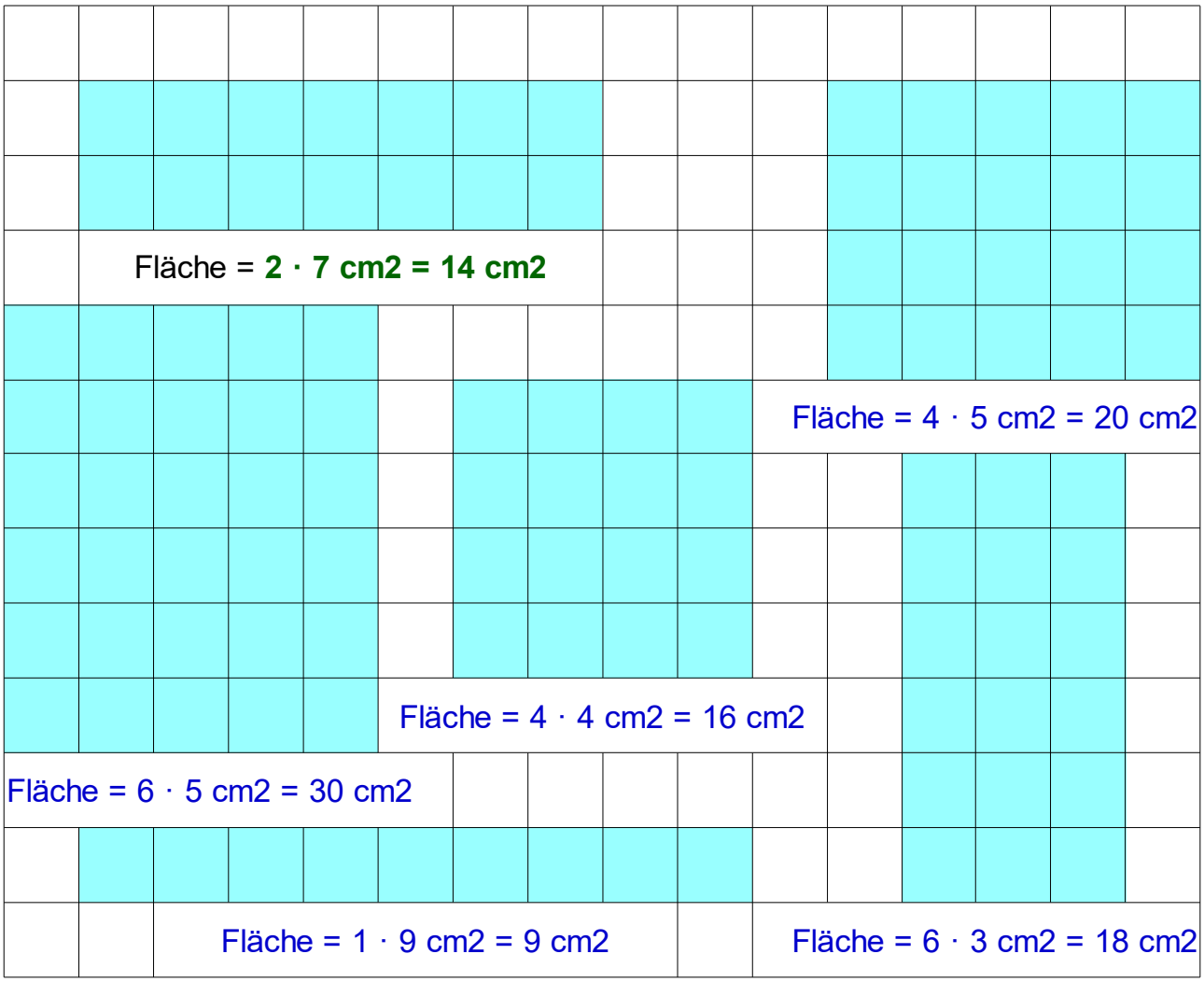
Notiere unter jedes Rechteck die Fläche mit der Rechnung: